PRACTICAMOS LAS RESTAS

con regletas

del 1 al 10



inspiraula.com

NORMAS DE USO DE LOS MATERIALES

¡Gracias por confiar en mis materiales educativos!
Antes de descargar o utilizar cualquier recurso, te pido que leas estas sencillas normas. Están pensadas para proteger el trabajo creativo de su autora y permitir que pueda seguir creando nuevos materiales.

1. USO PERSONAL Y EDUCATIVO

Los materiales adquiridos están destinados exclusivamente al uso personal y educativo del comprador.
Puedes imprimirlos para utilizarlos en tu aula, con tus alumnos o en casa, siempre respetando las condiciones indicadas para cada recurso.

2. NO ESTÁ PERMITIDA SU REDISTRIBUCIÓN

No está permitido compartir, reenviar, publicar, subir a Internet o distribuir los archivos adquiridos a otras personas.

3. NO ESTÁ PERMITIDA SU VENTA O COMERCIALIZACIÓN

Los materiales no pueden venderse, alquilarse, intercambiarse ni utilizarse como parte de un producto comercial de terceros.
Tampoco está permitido modificar un material y posteriormente vender o distribuir la versión modificada.

4. DERECHOS DE AUTOR

Todos los materiales, diseños, ilustraciones, textos y recursos incluidos en esta plataforma están protegidos por la normativa aplicable sobre propiedad intelectual.
La compra de un material proporciona una licencia de uso, pero no supone la transmisión de los derechos de autor.

5. NO ELIMINES LA AUTORÍA

No está permitido eliminar, ocultar o modificar las marcas de agua, logotipos, nombres de autor u otros elementos que identifiquen la autoría del material.

inspiraula.com

¿Cómo restar con regletas?

Restar es quitar una cantidad de otra. Con las regletas, colocamos la regleta de la cantidad que restamos encima de la regleta del número mayor. El trozo que queda sin cubrir es el resultado.

1 Coloca la regleta del número mayor.



2 Coloca encima la regleta del número que restas.

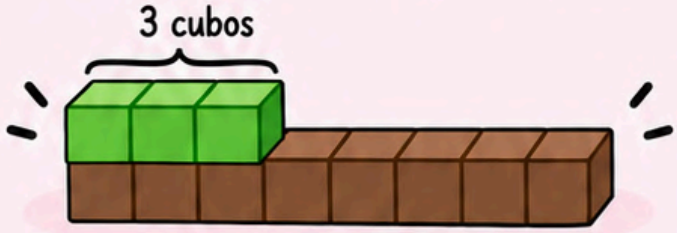

3 Observa el trozo que queda sin cubrir.

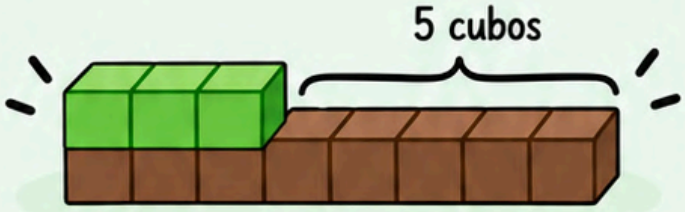

4 Ese trozo es el resultado.

8 - 3 = 5

Más ejemplos

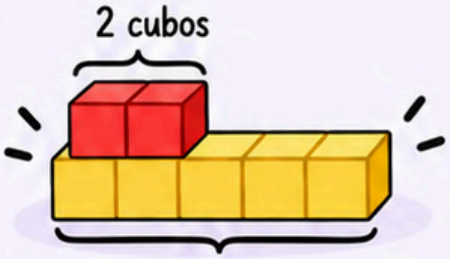

5 - 2 = 3

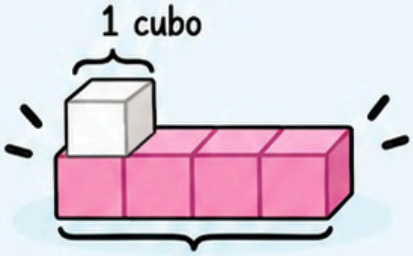

4 - 1 = 3

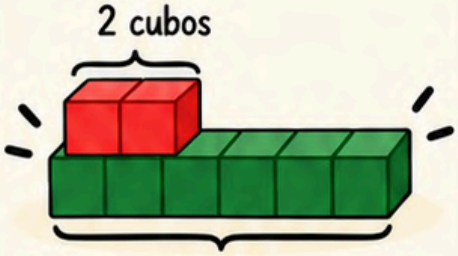

6 - 2 = 4

Restamos con regletas



Coloca la regleta del número mayor y encima la regleta que tienes que restar.
Observa el trozo que queda sin cubrir y escribe el resultado.

8 − 3 =

6 − 2 =

5 − 1 =

9 − 4 =

10 − 6 =

7 − 2 =

8 − 5 =

9 − 7 =

Representa las restas con regletas

Dibuja las regletas de cada operación, píntalas del color correcto y representa la resta como en el ejemplo.

Ejemplo: 8 − 3 = 5



6 − 2 =

9 − 4 =

5 − 1 =

7 − 3 =

10 − 6 =

8 − 5 =

9 − 7 =

4 − 2 =

Restamos el mismo número

Cuando restamos un número y quitamos esa misma cantidad, no queda nada.
Vamos a verlo con regletas:

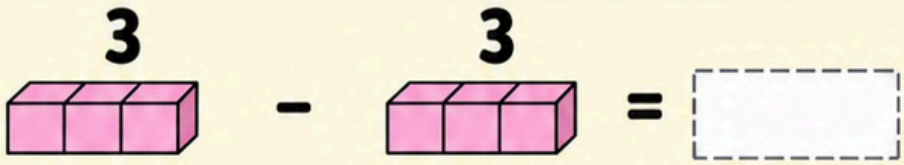

He quitado 3 regletas de 3. No queda ninguna.



He quitado 5 regletas de 5. No queda ninguna.

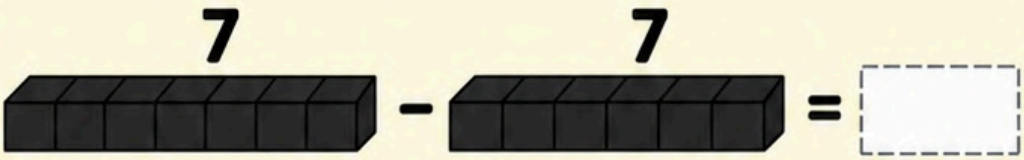

He quitado 7 regletas de 7. No queda ninguna.

Ahora practica

Representa cada resta con regletas, dibújalas y píntalas del color correcto.
Después escribe el resultado.

1 - 1		=	6 - 6		=
2 - 2		=	7 - 7		=
3 - 3		=	8 - 8		=
4 - 4		=	9 - 9		=
5 - 5		=	10 - 10		=

Pinta según el resultado

Resuelve las restas y pinta cada espacio del color indicado.



1 = 2 = 3 = 4 = 5 =

6 = 7 = 8 = 9 = 10 =

Problemas de restas

Lee cada problema, escribe la operación que tienes que hacer y contesta.

1 Tenía 5 manzanas y me he comido 2. ¿Cuántas manzanas me quedan?

Operación: Respuesta:

2 En la caja había 7 lápices y he sacado 3. ¿Cuántos lápices quedan en la caja?

Operación: Respuesta:

3 Había 6 pájaros en la rama y se han ido 4. ¿Cuántos pájaros quedan?

Operación: Respuesta:

4 Tenía 8 galletas y he regalado 5. ¿Cuántas galletas me quedan?

Operación: Respuesta:

5 En el estanque había 9 patos y se han ido 6. ¿Cuántos patos quedan?

Operación: Respuesta:

6 Había 4 globos y se han pinchado 2. ¿Cuántos globos quedan?

Operación: Respuesta:

7 Tengo 10 flores y he dado 7 a mi amiga. ¿Cuántas flores me quedan?

Operación: Respuesta:

8 En la pecera había 3 peces y he sacado 1. ¿Cuántos peces quedan?

Operación: Respuesta:

El número que falta

Observa el ejemplo. Escribe el número que falta en cada resta.

Ejemplo:

$5 - \boxed{3} = 2$



Si quitamos 3 de 5, quedan 2.

Por eso, el número que falta es 3.

$4 - \square = 1$	$8 - \square = 6$
$7 - \square = 4$	$5 - \square = 3$
$6 - \square = 2$	$9 - \square = 1$
$5 - \square = 0$	$7 - \square = 0$
$8 - \square = 3$	$4 - \square = 4$
$3 - \square = 1$	$10 - \square = 2$
$9 - \square = 5$	$3 - \square = 0$
$10 - \square = 7$	$6 - \square = 1$
$6 - \square = 4$	$8 - \square = 4$
$2 - \square = 0$	$9 - \square = 7$