Matemáticas

Sumamos con regletas

Del 1 al 10



inspiraula.com

NORMAS DE USO DE LOS MATERIALES

¡Gracias por confiar en mis materiales educativos!
Antes de descargar o utilizar cualquier recurso, te pido que leas estas sencillas normas. Están pensadas para proteger el trabajo creativo de su autora y permitir que pueda seguir creando nuevos materiales.

1. USO PERSONAL Y EDUCATIVO

Los materiales adquiridos están destinados exclusivamente al uso personal y educativo del comprador.
Puedes imprimirlos para utilizarlos en tu aula, con tus alumnos o en casa, siempre respetando las condiciones indicadas para cada recurso.

2. NO ESTÁ PERMITIDA SU REDISTRIBUCIÓN

No está permitido compartir, reenviar, publicar, subir a Internet o distribuir los archivos adquiridos a otras personas.

3. NO ESTÁ PERMITIDA SU VENTA O COMERCIALIZACIÓN

Los materiales no pueden venderse, alquilarse, intercambiarse ni utilizarse como parte de un producto comercial de terceros.
Tampoco está permitido modificar un material y posteriormente vender o distribuir la versión modificada.

4. DERECHOS DE AUTOR

Todos los materiales, diseños, ilustraciones, textos y recursos incluidos en esta plataforma están protegidos por la normativa aplicable sobre propiedad intelectual.
La compra de un material proporciona una licencia de uso, pero no supone la transmisión de los derechos de autor.

5. NO ELIMINES LA AUTORÍA

No está permitido eliminar, ocultar o modificar las marcas de agua, logotipos, nombres de autor u otros elementos que identifiquen la autoría del material.

inspiraula.com

Las regletas de números

Cada regleta tiene un color y un valor. Fíjate bien.

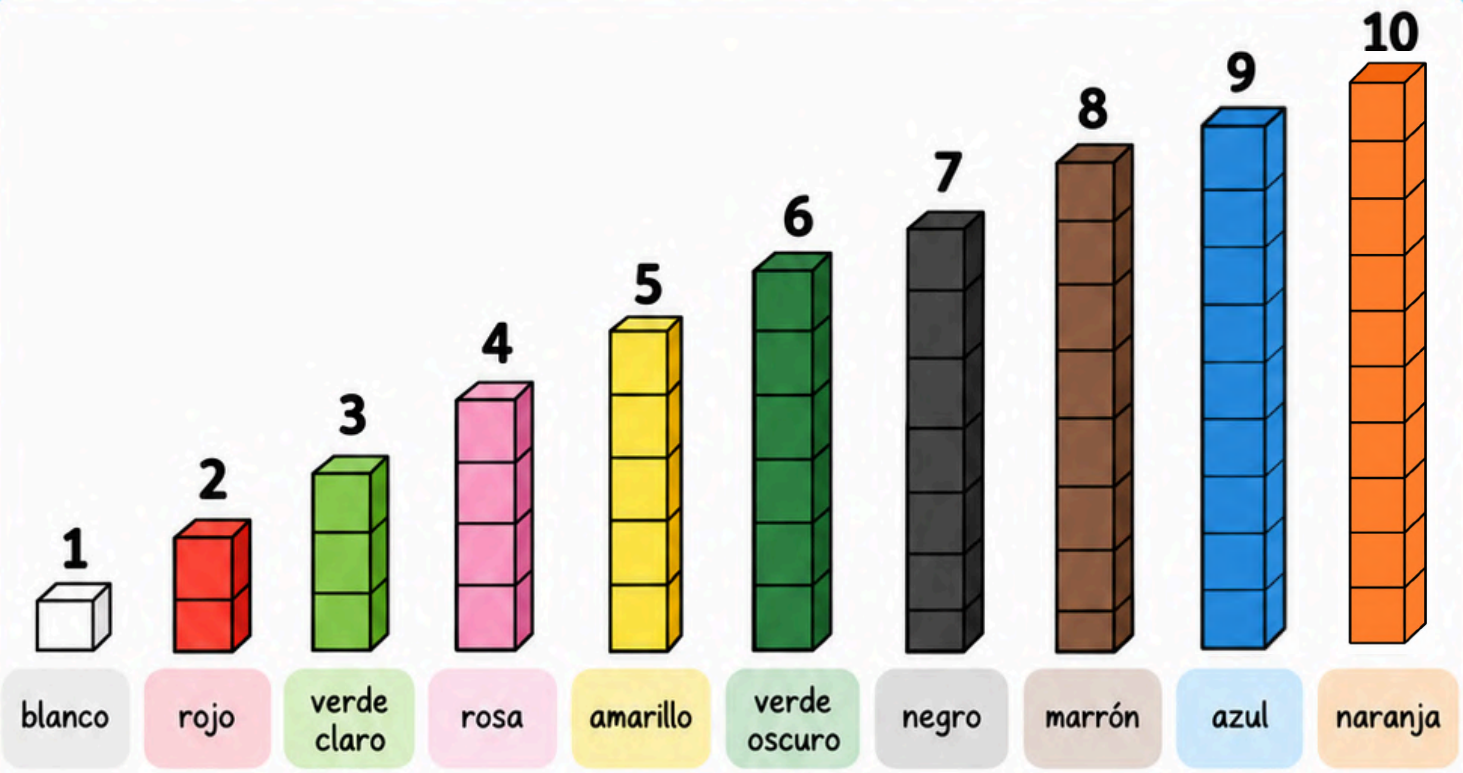

Rodea la regleta que corresponde al número indicado.

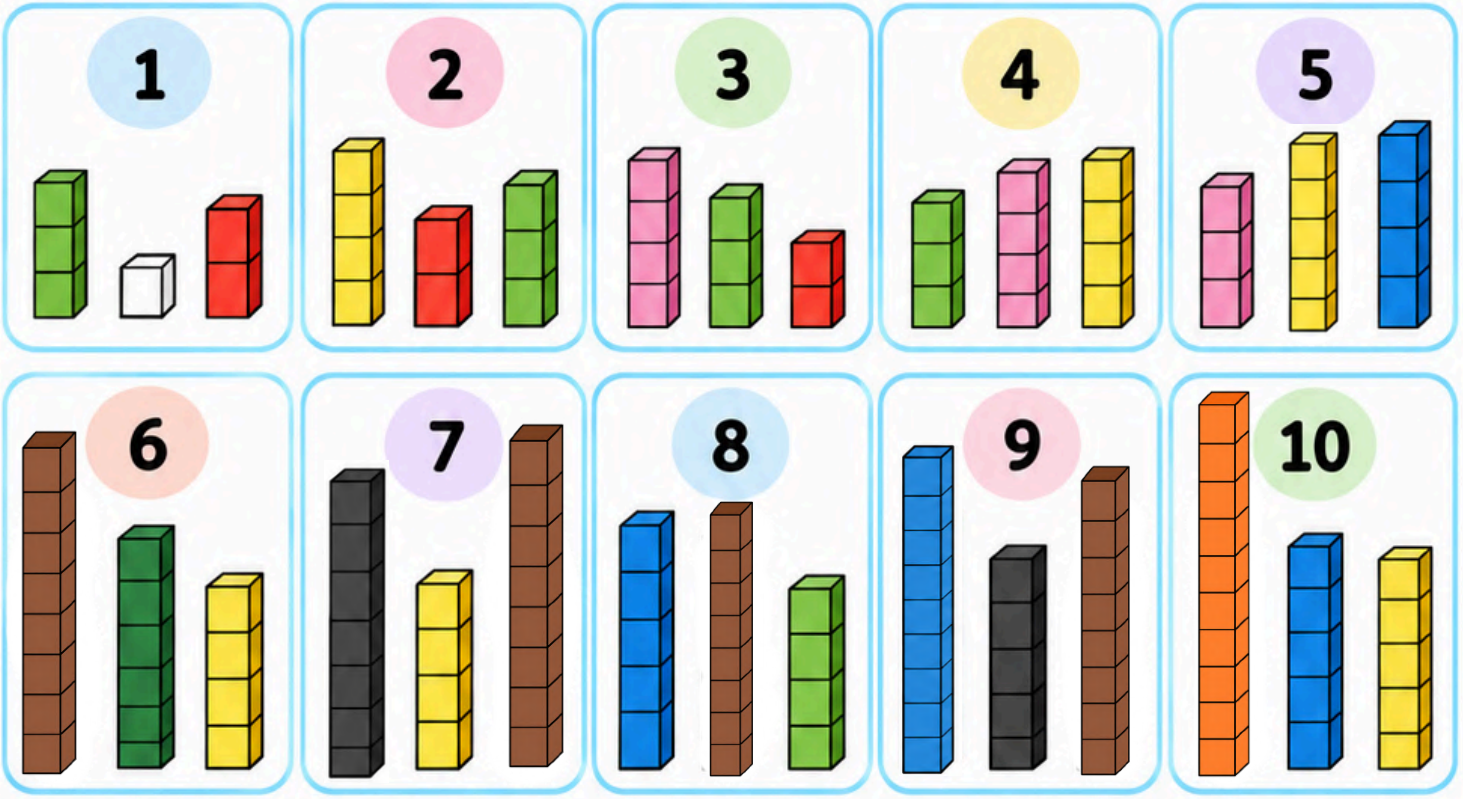

Cómo sumamos con regletas

Para sumar con regletas, juntamos las regletas que indican los números y buscamos una sola regleta que tenga el mismo valor que todas juntas.

1 Elegimos las regletas que queremos sumar.



2 Juntamos las regletas.

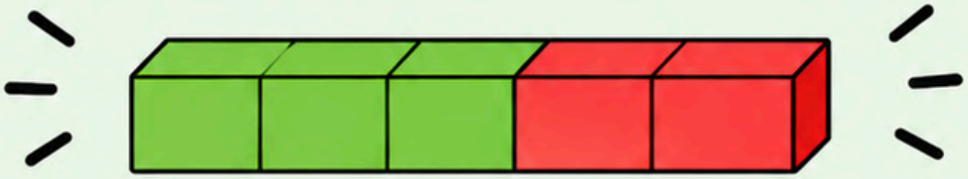

3 Buscamos una sola regleta que tenga el mismo valor que las regletas juntas y la colocamos debajo.



Por lo tanto, 3 + 2 = 5.

Sumamos con regletas



Coloca las regletas que se indican, júntalas y escribe el resultado.

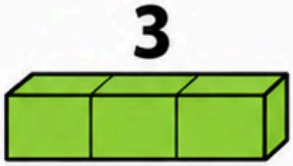

+

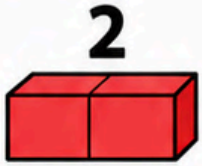

=

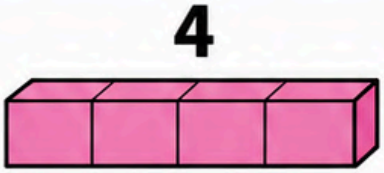

+



=

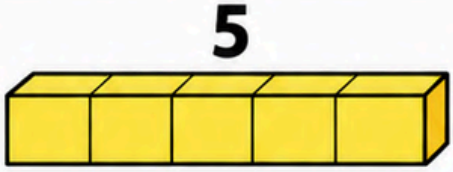

+

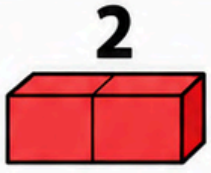

=

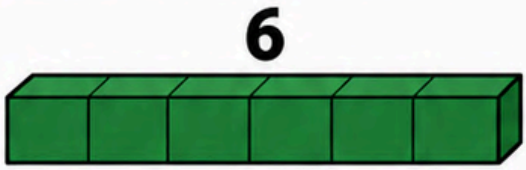

+

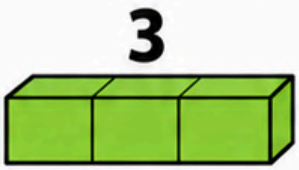

=

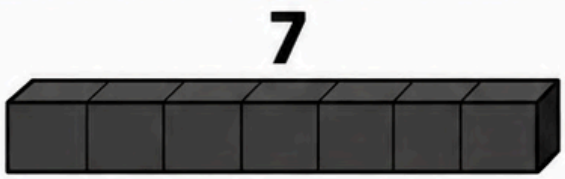

+

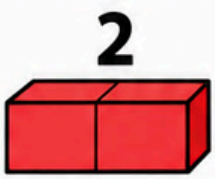

=

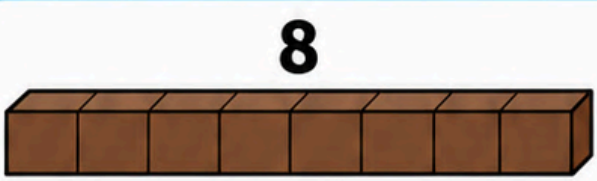

+



=

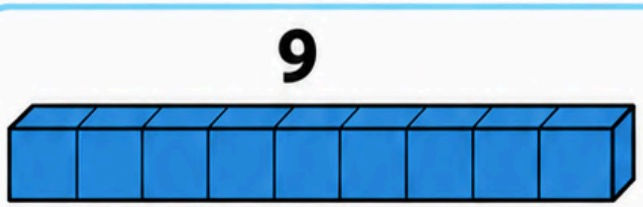

+



=

Representa las sumas



Dibuja las regletas que necesitas para representar cada suma.
Utiliza los colores correctos.

1 + 3 = 4	2 + 5 = 7
4 + 4 = 8	3 + 6 = 9
1 + 6 = 7	2 + 3 = 5
5 + 4 = 9	7 + 2 = 9
6 + 3 = 9	4 + 5 = 9

Las parejas del 10

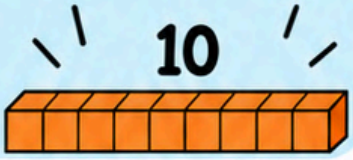

Busca la regleta que, junto con la regleta dada, suma 10.
Puedes utilizar tus regletas para comprobarlo.

 + ☐ = 10

 + ☐ = 10

 + ☐ = 10

 + ☐ = 10

 + ☐ = 10

 + ☐ = 10

 + ☐ = 10

 + ☐ = 10

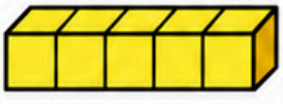 + ☐ = 10

 + ☐ = 10

Las parejas del 10



Busca en la sopa de números todas las parejas de números contiguos que suman 10. Pinta del mismo color los dos números de cada pareja.

1 y 9 | 2 y 8 | 3 y 7 | 4 y 6 | 5 y 5

Ejemplo:

3	7	2

El 3 y el 7 están juntos y suman 10, por eso se pintan del mismo color.

4	6	2	8	1	9	3	7	5	5
7	3	5	5	9	1	6	4	2	8
1	9	2	8	4	6	3	7	5	4
5	1	9	3	7	2	8	6	4	6
8	2	5	5	6	4	9	1	7	3
3	7	4	6	2	8	5	5	1	9
6	4	7	3	8	2	9	1	5	5
2	8	1	9	5	5	3	7	4	6